Eignungsprüfung zum WS 2021 POP MUSIKTHEORIE

NAME, VORNAME, HAUPTFACH

1. Notieren Sie folgende Töne 3 P



kleines f | d1 | kleines dis

2. Bestimmen Sie folgende Intervalle nach dem genauen Schriftbild (3 P)



1) 2) 3)

3. Notieren Sie folgende Intervalle aufwärts: (3 P)



1)Große Sexte | 2)verminderte Terz | 3)übermäßige Sexte

4. Bestimmen Sie folgende Vierklänge mit Ihnen bekannten Akkordsymbolen oder Bezeichnungen (6P).



5. Notieren Sie die Tonleiter E-Lokrisch (3P)

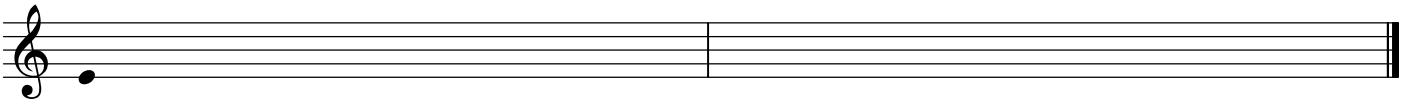

6. Bestimmen Sie die beiden Kirchentonleitern (Modi) (4P)

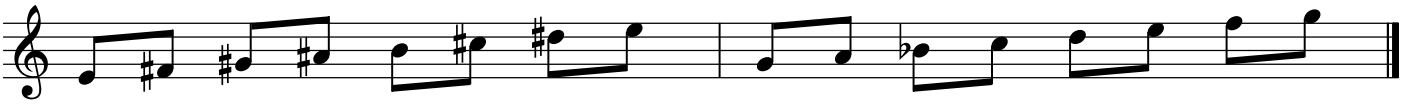

7. Notieren Sie die folgenden Akkordfolge im vierstimmigen Klaviersatz,
1. Akkord gegeben, (20 P = je Akkord 4 Punkte)



Punkte: (von 42) Note: