Eignungsprüfung zum WS 2021 MUSICAL MUSIKTHEORIE (Anfertigungszeit 30 Minuten)

Prüferblatt

1. Notieren Sie folgende Töne 3 P



kleines ges | e1 | kleines fis

2. Bestimmen Sie folgende Intervalle nach dem genauen Schriftbild (3 P)



1) 2) 3)

3. Notieren Sie folgende Intervalle aufwärts: (3 P)



1)Große Sekunde | 2)übermäßige Quarte | 3)verminderte Sexte

4. Bestimmen Sie folgende Vierklänge mit Ihnen bekannten Akkordsymbolen oder Bezeichnungen (6P).

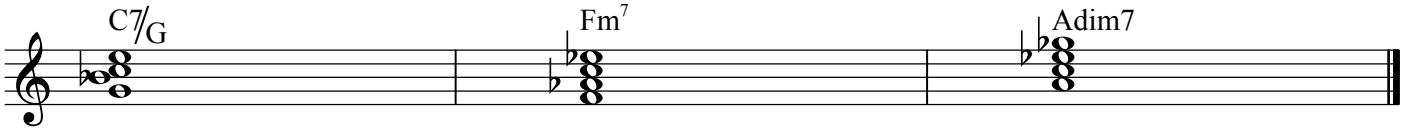

Notieren Sie die Tonleiter G-Dorisch (3P)

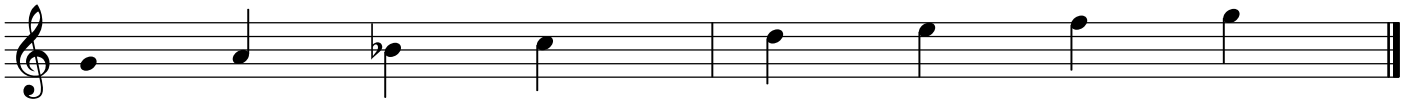

6. Bestimmen Sie die beiden Kirchentonleitern (Modi) (4P)



Lokr | Lyd

7. Notieren Sie die folgenden Akkordfolge im vierstimmigen Klaviersatz,
1. Akkord gegeben, (20 P = je Akkord 4 Punkte)



Punkte: (von 42) Note: